CM1 - CALCUL

Je fais le point

Nom _____ Prénom _____ Date ___/___/___

https://laclassebleue.fr/

La soustraction des nombres entiers

Exercice n° 1

Calcule en ligne.

34 – 9 = _____

266 – 19 = _____

100 – 60 = _____

1 000 – 150 = _____

581 – 126 = _____

635 – 291 = _____

769 – 30 = _____

87 – _____ = 41

Évaluation

Calculer en ligne des soustractions simples.

/8

Exercice n° 2

Pose et effectue ces soustractions.
Puis évalue un ordre de grandeur des résultats avant d'indiquer si ta réponse est vraisemblable.

876 – 531

Ordre de grandeur

_____ – _____ = _____

Ma réponse me paraît vraisemblable : ☐ Oui ☐ Non

4 483 – 1 907

Ordre de grandeur

_____ – _____ = _____

Ma réponse me paraît vraisemblable : ☐ Oui ☐ Non

9 623 – 548

Ordre de grandeur

_____ – _____ = _____

Ma réponse me paraît vraisemblable : ☐ Oui ☐ Non

8 209 – 4 310

Ordre de grandeur

_____ – _____ = _____

Ma réponse me paraît vraisemblable : ☐ Oui ☐ Non

54 093 – 26 876

Ordre de grandeur

_____ – _____ = _____

Ma réponse me paraît vraisemblable : ☐ Oui ☐ Non

75 104 – 59 092

Ordre de grandeur

_____ – _____ = _____

Ma réponse me paraît vraisemblable : ☐ Oui ☐ Non

Évaluer l'ordre de grandeur d'une soustraction	/ 18	
Poser et effectuer une soustraction avec des entiers.	/ 18	

Exercice n° 3

Résous ces problèmes.

N° 1



C'est en 1 966 qu'a été gravi pour la première fois le plus haut sommet de l'Antarctique, le mont Vinson, 5 140 m.

Combien d'années se sont écoulées depuis cette date ?

STOP

☐ *J'ai rédigé une phrase d'annonce.*
☐ *J'ai écrit mon calcul en ligne avant de le poser et de l'effectuer.*
☐ *J'ai rédigé une phrase-réponse correctement construite.*

N° 2



La voiture que Mr et Mme Gibourd veulent acquérir coûte 15 299 €.
Le vendeur accepte de leur accorder une remise de 1 457 €.

Quelle somme vont-ils dépenser ?

- ☐ *J'ai rédigé une phrase d'annonce.*
- ☐ *J'ai écrit mon calcul en ligne avant de le poser et de l'effectuer.*
- ☐ *J'ai rédigé une phrase-réponse correctement construite.*



Résoudre des problèmes relevant de la soustraction

/ 10

Évaluation

CM1-CALCUL

Je fais le point

Nom _____ Prénom _____ Date ___/___/___

https://laclasseblue.fr/

La soustraction des nombres entiers

Exercice n° 1

Calcule en ligne.

34 – 9 = _____

266 – 19 = _____

100 – 60 = _____

1 000 – 150 = _____

581 – 126 = _____

635 – 291 = _____

769 – 30 = _____

87 – _____ = 41

Évaluation

Calculer en ligne des soustractions simples.

/8

Exercice n° 2

Effectue ces soustractions.
Puis évalue un ordre de grandeur des résultats avant d'indiquer si ta réponse est vraisemblable.

876 – 531

	8	7	6
–	5	3	1

Ordre de grandeur

_____ – _____ = _____

Ma réponse me paraît vraisemblable : ☐ Oui ☐ Non

4 483 – 1 907

	4	4	8	3
–	1	9	0	7

Ordre de grandeur

_____ – _____ = _____

Ma réponse me paraît vraisemblable : ☐ Oui ☐ Non

9 623 – 548

	9	6	2	3
–		5	4	8

Ordre de grandeur

_____ – _____ = _____

Ma réponse me paraît vraisemblable : ☐ Oui ☐ Non

8 209 – 4 310

	8	2	0	9
–	4	3	1	0

Ordre de grandeur

_____ – _____ = _____

Ma réponse me paraît vraisemblable : ☐ Oui ☐ Non

54 093 – 26 876

	5	4	0	9	3
–	2	6	8	7	6

Ordre de grandeur

_____ – _____ = _____

Ma réponse me paraît vraisemblable : ☐ Oui ☐ Non

75 104 – 59 092

	7	5	1	0	4
–	5	9	0	9	2

Ordre de grandeur

_____ – _____ = _____

Ma réponse me paraît vraisemblable : ☐ Oui ☐ Non

Évaluer l'ordre de grandeur d'une soustraction		/ 18
Effectuer une soustraction avec des entiers.		/ 18

Exercice n° 3

Résous ces problèmes.

N° 1



C'est en 1 966 qu'a été gravi pour la première fois le plus haut sommet de l'Antarctique, le mont Vinson, 5 140 m.

Combien d'années se sont écoulées depuis cette date ?

STOP

- ☐ J'ai rédigé une phrase d'annonce.
- ☐ J'ai écrit mon calcul en ligne avant de le poser et de l'effectuer.
- ☐ J'ai rédigé une phrase-réponse correctement construite.

N° 2



La voiture que Mr et Mme Gibourd veulent acquérir coûte 15 299 €.
Le vendeur accepte de leur accorder une remise de 1 457 €.

Quelle somme vont-ils dépenser ?

- ☐ *J'ai rédigé une phrase d'annonce.*
- ☐ *J'ai écrit mon calcul en ligne avant de le poser et de l'effectuer.*
- ☐ *J'ai rédigé une phrase-réponse correctement construite.*



Résoudre des problèmes relevant de la soustraction

/ 10

Évaluation