CM1-CALCUL

Je fais le point

Nom _____ Prénom _____ Date ___/___/___

https://laclasseblue.fr/

La division des nombres entiers

Diviseur à 2 chiffres

Exercice n° 1

Pour chaque division, recherche le nombre de chiffres du quotient.
Puis pose et effectue ces divisions !

Nombre de chiffres du quotient

____ X ____ < _____ < _____ X _____

Le quotient aura donc ____ chiffres.

692 : 15

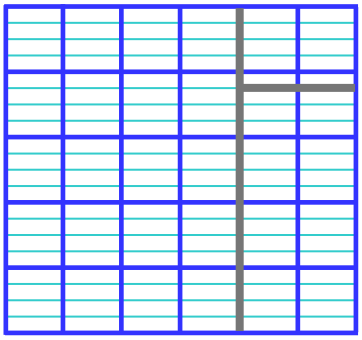

Nombre de chiffres du quotient

____ X ____ < _____ < _____ X _____

Le quotient aura donc ____ chiffres.

847 : 27

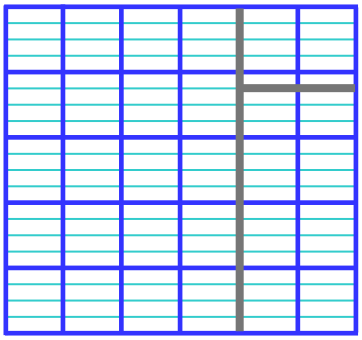

Nombre de chiffres du quotient

____ X _____ < _____ < _____ X _____

Le quotient aura donc ____ chiffres.

7 820 : 51

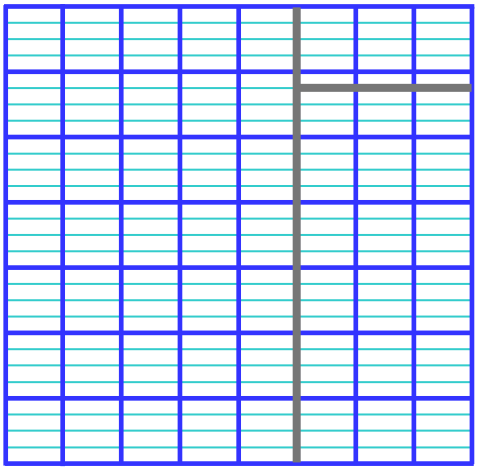

Nombre de chiffres du quotient

____ X _____ < _____ < _____ X _____

Le quotient aura donc ____ chiffres.

9 049 : 38

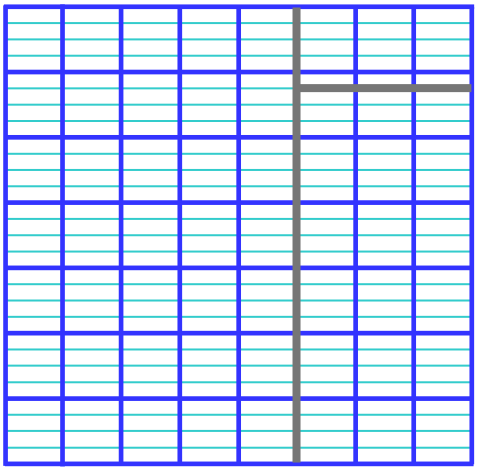

27 519 : 42



Nombre de chiffres du quotient

____ X ____ < _____ < ____ X _____

Le quotient aura donc ___ chiffres.



Évaluer le nombre de chiffres du quotient	/ 15	
Poser et effectuer une division (diviseur à deux chiffres).	/ 20	

Évaluation

Exercice n° 2

Résous ces problèmes.

N° 1



32 candidats ont payé pour participer à un tournoi de tir à l'arc.
La recette finale est de 768 €.
Combien chaque joueur a-t-il payé ?

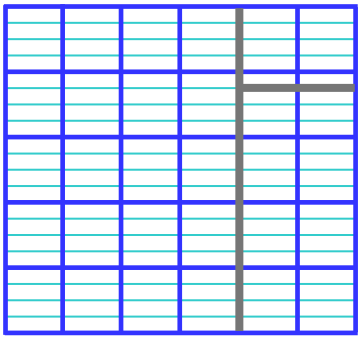

STOP

☐ *J'ai rédigé*
une phrase d'annonce.
☐ *J'ai écrit*
mon calcul en ligne avant de le poser et de l'effectuer.
☐ *J'ai rédigé une phrase-réponse correctement construite.*

N° 2

En 2020, le Paris-Dakar a offert une course de 7 839 km en 12 étapes à travers l'Arabie Saoudite.

Quelle était la longueur moyenne d'une étape ?

STOP

☐ *J'ai rédigé*
une phrase d'annonce.
☐ *J'ai écrit*
mon calcul en ligne avant de le poser et de l'effectuer.
☐ *J'ai rédigé une phrase-réponse correctement construite.*

Évaluation

Résoudre des problèmes relevant de la division

/ 10

CM1-CALCUL

Je fais le point

Nom _____ Prénom _____ Date ___/___/___

https://laclasseblue.fr/

La division des nombres entiers

Diviseur à 2 chiffres

Exercice n° 1

Pour chaque division, recherche le nombre de chiffres du quotient.
Puis pose et effectue ces divisions !

Nombre de chiffres du quotient

_____ X ____ < _____ < _____ X _____

Le quotient aura donc ____ chiffres.

692 : 15

	6	9	2	1	5

Nombre de chiffres du quotient

____ X ____ < _____ < _____ X _____

Le quotient aura donc ____ chiffres.

847 : 27

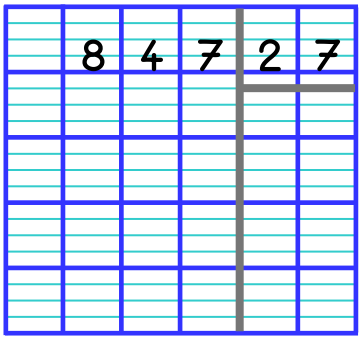

Nombre de chiffres du quotient

____ X _____ < _____ < _____ X _____

Le quotient aura donc ____ chiffres.

7 820 : 51

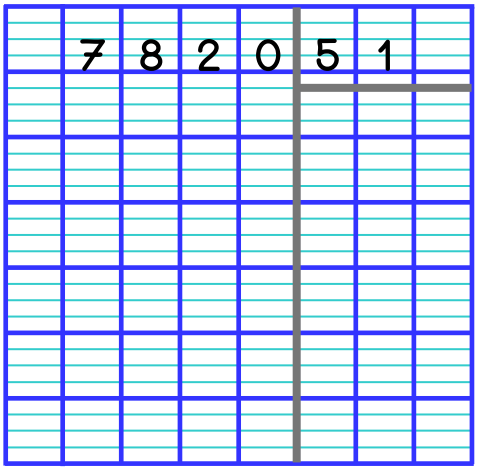

Nombre de chiffres du quotient

____ X _____ < _____ < _____ X _____

Le quotient aura donc ____ chiffres.

9 049 : 38

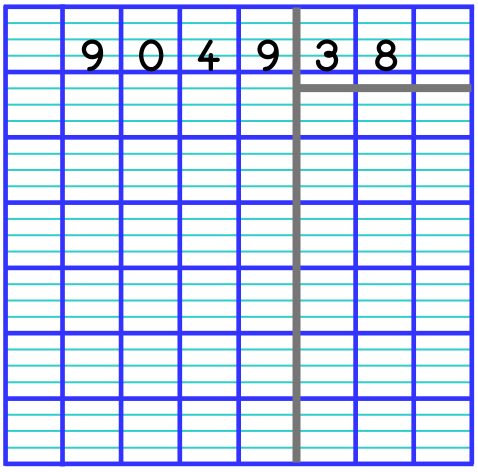

27 519 : 42

	2	7	5	1	9	4	2

Nombre de chiffres du quotient

____ X ____ < _____ < ____ X _____

Le quotient aura donc ____ chiffres.



Évaluer le nombre de chiffres du quotient.	/ 15	
Effectuer une division (diviseur à deux chiffres).	/ 20	

Évaluation

Exercice n° 2

Résous ces problèmes.

N° 1



32 candidats ont payé pour participer à un tournoi de tir à l'arc.
La recette finale est de 768 €.
Combien chaque joueur a-t-il payé ?

STOP

☐ *J'ai rédigé*
une phrase d'annonce.
☐ *J'ai écrit*
mon calcul en ligne avant de le poser et de l'effectuer.
☐ *J'ai rédigé une phrase-réponse correctement construite.*

N° 2

En 2020, le Paris-Dakar a offert une course de 7 839 km en 12 étapes à travers l'Arabie Saoudite.

Quelle était la longueur moyenne d'une étape ?

STOP

☐ *J'ai rédigé*
une phrase d'annonce.
☐ *J'ai écrit*
mon calcul en ligne avant de le poser et de l'effectuer.
☐ *J'ai rédigé une phrase-réponse correctement construite.*

Évaluation

Résoudre des problèmes relevant de la division

/ 10