Calcul

CE1



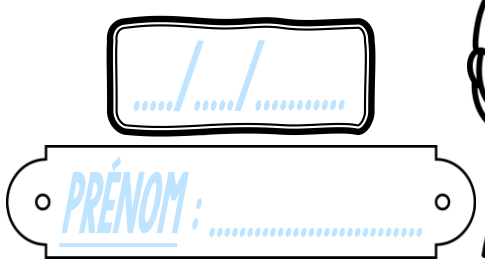



https://laclassebleue.fr/

① **Effectue** ces additions.

		2	4	5
	+		3	7

		4	3	4
	+	2	8	3

		3	2	3
	+		5	9

		5	2	4
	+	1	0	6

		2	4	9
	+		7	6

② **Pose** et **effectue** ces additions.

459 + 32

	+			

514 + 343

	+			

163 + 374

	+			

706 + 95

	+			

635 + 286

	+			

③ **Résous ce problème.**

Jules et sa sœur Louise ont ramassé des fraises dans les bois. Jules en a récolté 78 tandis que sa sœur en a cueilli 114. **Quelle quantité** totale de fraises **ont-ils ramassée** ?

Calcul/L'addition posée (Nombres à 3 chiffres)

Calcul

CE1



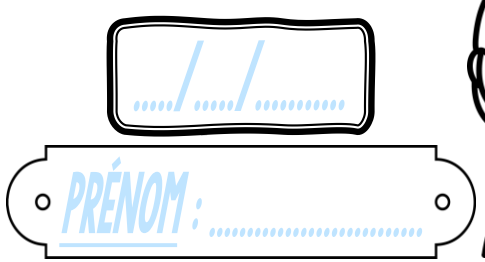



https://laclassebleue.fr/

① **Effectue** ces additions.

		2	4	5
	+		3	7

		4	3	4
	+	2	8	3

		3	2	3
	+		5	9

		5	2	4
	+	1	0	6

		2	4	9
	+		7	6

② **Pose** et **effectue** ces additions.

459 + 32

514 + 343

163 + 374

706 + 95

635 + 286

③ **Résous ce problème.**

Jules et sa sœur Louise ont ramassé des fraises dans les bois. Jules en a récolté 78 tandis que sa sœur en a cueilli 114. **Quelle quantité** totale de fraises **ont-ils ramassée** ?

Calcul/L'addition posée (Nombres à 3 chiffres)

Calcul

CE1



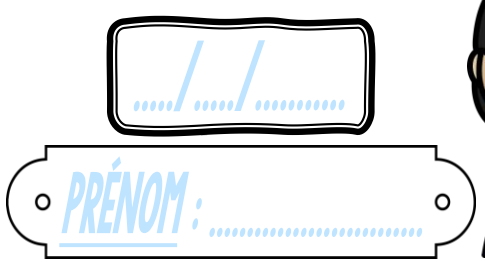



https://laclassebleue.fr/

① **Effectue** ces additions.

		2	4	5
	+		3	7

		4	3	4
	+	2	8	3

		3	2	3
	+		5	9

		5	2	4
	+	1	0	6

		2	4	9
	+		7	6

② **Pose** et **effectue** ces additions.

459 + 32

	+			

514 + 343

	+			

163 + 374

	+			

706 + 95

	+			

635 + 286

	+			

③ **Résous ce problème.**

Jules et sa sœur Louise ont ramassé des fraises dans les bois. Jules en a récolté 78 tandis que sa sœur en a cueilli 114. **Quelle quantité** totale de fraises **ont-ils ramassée** ?

Calcul/L'addition posée (Nombres à 3 chiffres)

Calcul

CE1



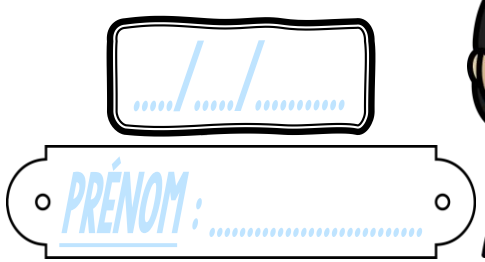



https://laclassebleue.fr/

① **Effectue** ces additions.

		2	4	5
	+		3	7

		4	3	4
	+	2	8	3

		3	2	3
	+		5	9

		5	2	4
	+	1	0	6

		2	4	9
	+		7	6

② **Pose** et **effectue** ces additions.

459 + 32

514 + 343

163 + 374

706 + 95

635 + 286

③ **Résous ce problème.**

Jules et sa sœur Louise ont ramassé des fraises dans les bois. Jules en a récolté 78 tandis que sa sœur en a cueilli 114. **Quelle quantité** totale de fraises **ont-ils ramassée** ?

Calcul/L'addition posée (Nombres à 3 chiffres)

Calcul

CE1

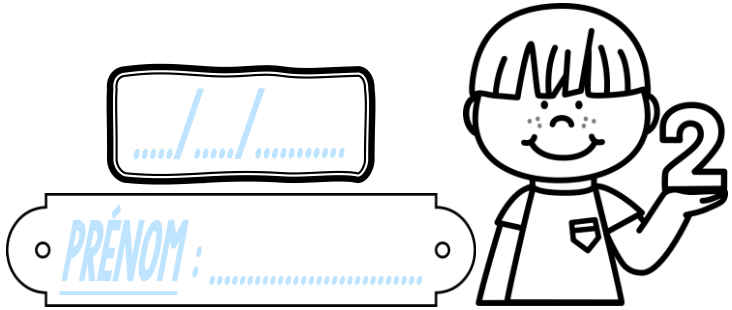

https://laclassebleue.fr/

① **Effectue** ces additions.

		3	5	7
	+	4	2	5

		7	0	5
	+	2	6	3

		1	4	0
	+		8	2

		4	3	9
	+	2	4	8

		7	9	7
	+	1	5	6

② **Pose** et **effectue** ces additions.

265 + 84

	+			

547 + 399

	+			

404 + 278

	+			

52 + 375

	+			

644 + 319

	+			

③ **Résous ce problème.**

Pour accueillir leur chien Nonosse chez eux, la famille de Nicolas a acheté une niche à 219 €, un sac de croquettes à 37 € et 56 € de jouets. **Combien ont-ils dépensé** pour Nonosse ?

Calcul/L'addition posée (Nombres à 3 chiffres)

Calcul

CE1

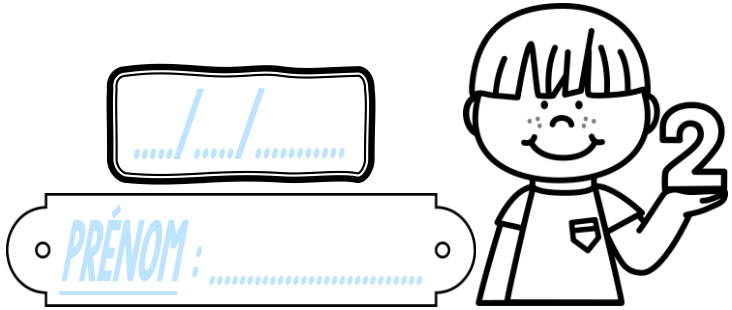

https://laclassebleue.fr/

① **Effectue** ces additions.

		3	5	7
	+	4	2	5

		7	0	5
	+	2	6	3

		1	4	0
	+		8	2

		4	3	9
	+	2	4	8

		7	9	7
	+	1	5	6

② **Pose** et **effectue** ces additions.

265 + 84

547 + 399

404 + 278

52 + 375

644 + 319

③ **Résous ce problème.**

Pour accueillir leur chien Nonosse chez eux, la famille de Nicolas a acheté une niche à 219 €, un sac de croquettes à 37 € et 56 € de jouets. **Combien ont-ils dépensé** pour Nonosse ?

Calcul/L'addition posée (Nombres à 3 chiffres)

Calcul

CEI

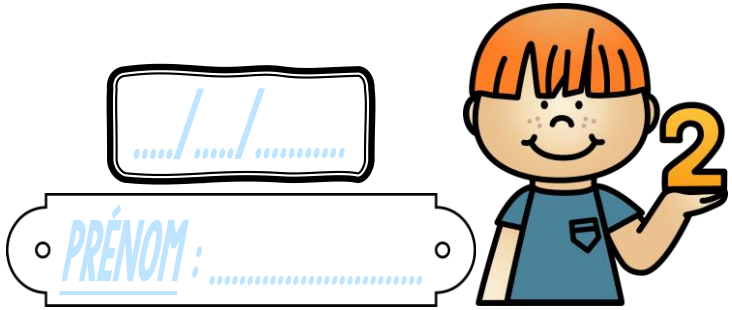

..../..../.....

PRÉNOM : .....

https://laclassebleue.fr/

① **Effectue** ces additions.

		3	5	7
	+	4	2	5

		7	0	5
	+	2	6	3

		1	4	0
	+		8	2

		4	3	9
	+	2	4	8

		7	9	7
	+	1	5	6

② **Pose** et **effectue** ces additions.

265 + 84

	+			

547 + 399

	+			

404 + 278

	+			

52 + 375

	+			

644 + 319

	+			

③ **Résous ce problème.**

Pour accueillir leur chien Nonosse chez eux, la famille de Nicolas a acheté une niche à 219 €, un sac de croquettes à 37 € et 56 € de jouets. **Combien ont-ils dépensé** pour Nonosse ?

Calcul/L'addition posée (Nombres à 3 chiffres)

Calcul

CE1

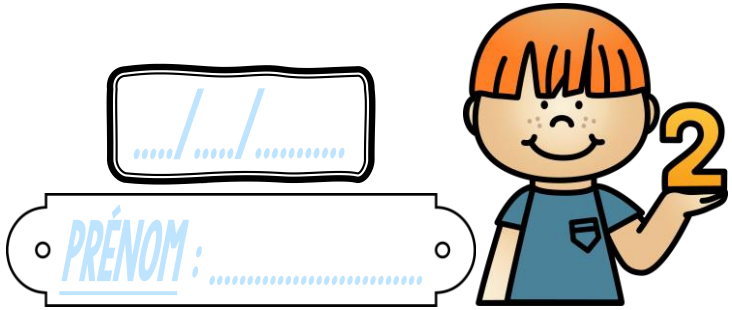

..../..../.....

PRÉNOM : .....

https://laclassebleue.fr/

① **Effectue** ces additions.

		3	5	7
	+	4	2	5

		7	0	5
	+	2	6	3

		1	4	0
	+		8	2

		4	3	9
	+	2	4	8

		7	9	7
	+	1	5	6

② **Pose** et **effectue** ces additions.

265 + 84

547 + 399

404 + 278

52 + 375

644 + 319

③ **Résous ce problème.**

Pour accueillir leur chien Nonosse chez eux, la famille de Nicolas a acheté une niche à 219 €, un sac de croquettes à 37 € et 56 € de jouets. **Combien ont-ils dépensé** pour Nonosse ?

Calcul/L'addition posée (Nombres à 3 chiffres)

Calcul

CEI



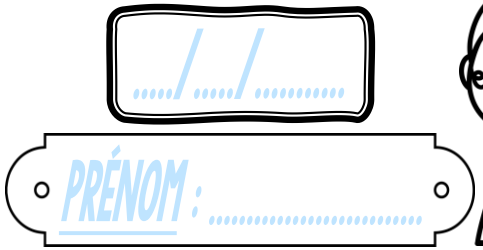

https://laclassebleue.fr/

① **Effectue** ces additions.

		4	9	3
	+	3	8	4

		2	2	7
	+	5	0	5

		5	6	4
	+	3	7	2

		6	7	6
	+	1	0	9
	+		4	3

		3	8	5
	+	2	4	6
	+	1	9	4

② **Pose** et **effectue** ces additions.

503 + 236

	+			

27 + 6 + 395

	+			
	+			

208 + 79

	+			

641 + 9 + 58

	+			
	+			

423 + 367

	+			

③ **Résous ce problème.**

Les parents d'Alice ont décidé de refaire leur salon. Ils ont acheté un canapé à 785 €, un meuble TV à 329 € et un nouveau lustre à 79 €. **Combien ont-ils dépensé** en tout ?

Calcul/L'addition posée (Nombres à 3 chiffres)

Calcul

CE1



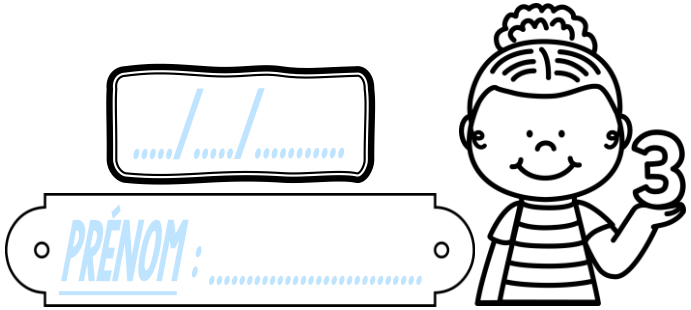

https://laclassebleue.fr/

① **Effectue** ces additions.

		4	9	3
	+	3	8	4

		2	2	7
	+	5	0	5

		5	6	4
	+	3	7	2

		6	7	6
	+	1	0	9
	+		4	3

		3	8	5
	+	2	4	6
	+	1	9	4

② **Pose** et **effectue** ces additions.

503 + 236

27 + 6 + 395

208 + 79

641 + 9 + 58

423 + 367

③ **Résous ce problème.**

Les parents d'Alice ont décidé de refaire leur salon. Ils ont acheté un canapé à 785 €, un meuble TV à 329 € et un nouveau lustre à 79 €. **Combien ont-ils dépensé** en tout ?

Calcul/L'addition posée (Nombres à 3 chiffres)

Calcul

CE1





https://laclassebleue.fr/

① **Effectue** ces additions.

		4	9	3
	+	3	8	4

		2	2	7
	+	5	0	5

		5	6	4
	+	3	7	2

		6	7	6
	+	1	0	9
	+		4	3

		3	8	5
	+	2	4	6
	+	1	9	4

② **Pose** et **effectue** ces additions.

503 + 236

	+			

27 + 6 + 395

	+			
	+			

208 + 79

	+			

641 + 9 + 58

	+			
	+			

423 + 367

	+			

③ **Résous ce problème.**

Les parents d'Alice ont décidé de refaire leur salon. Ils ont acheté un canapé à 785 €, un meuble TV à 329 € et un nouveau lustre à 79 €. **Combien ont-ils dépensé** en tout ?

Calcul/L'addition posée (Nombres à 3 chiffres)

Calcul

CEI





..../..../.....

PRÉNOM : .....

https://laclassebleue.fr/

① **Effectue** ces additions.

		4	9	3
	+	3	8	4

		2	2	7
	+	5	0	5

		5	6	4
	+	3	7	2

		6	7	6
	+	1	0	9
	+		4	3

		3	8	5
	+	2	4	6
	+	1	9	4

② **Pose** et **effectue** ces additions.

503 + 236

27 + 6 + 395

208 + 79

641 + 9 + 58

423 + 367

③ **Résous ce problème.**

Les parents d'Alice ont décidé de refaire leur salon. Ils ont acheté un canapé à 785 €, un meuble TV à 329 € et un nouveau lustre à 79 €. **Combien ont-ils dépensé** en tout ?

Calcul/L'addition posée (Nombres à 3 chiffres)

Calcul

CE1

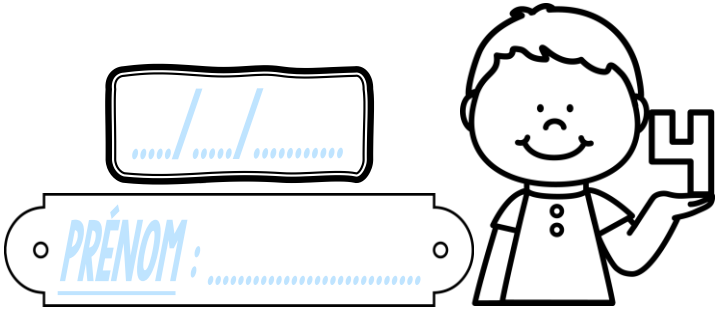

https://laclassebleue.fr/

① **Effectue** ces additions.

		7	5	2
	+	1	4	9

		5	3	4
	+	2	6	8

		2	4	7
	+	4	5	6

		8	4	5
	+		7	9
	+			3

		6	5	2
	+	1	9	3
	+		4	2

② **Pose** et **effectue** ces additions.

405 + 488

	+			

391 + 4 + 286

	+			
	+			

178 + 59

	+			

483 + 67 + 38

	+			
	+			

671 + 95

	+			

③ **Résous ce problème.**

Maël, sa sœur Rose et leurs parents ont passé 15 jours en Chine. De ce voyage, Maël a rapporté 146 clichés, Rose 86 et leurs parents 429. **Combien de photos ont été prises en tout** ?

Calcul

CE1

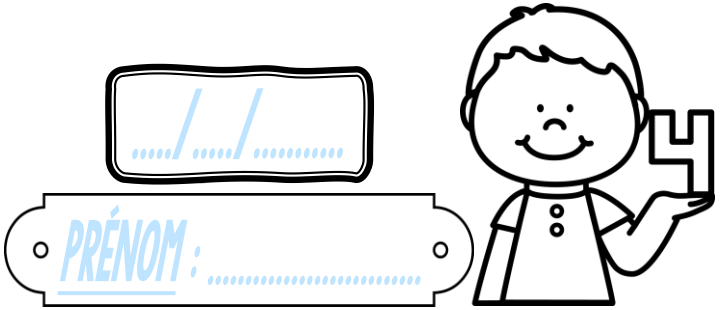

https://laclassebleue.fr/

① **Effectue** ces additions.

		7	5	2
	+	1	4	9

		5	3	4
	+	2	6	8

		2	4	7
	+	4	5	6

		8	4	5
	+		7	9
	+			3

		6	5	2
	+	1	9	3
	+		4	2

② **Pose** et **effectue** ces additions.

405 + 488

391 + 4 + 286

178 + 59

483 + 67 + 38

671 + 95

③ **Résous ce problème.**

Maël, sa sœur Rose et leurs parents ont passé 15 jours en Chine. De ce voyage, Maël a rapporté 146 clichés, Rose 86 et leurs parents 429. **Combien de photos ont été prises en tout** ?

Calcul/L'addition posée (Nombres à 3 chiffres)

Calcul

CE1

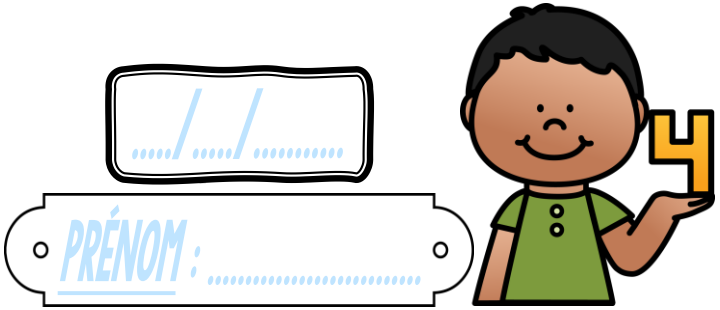

https://laclassebleue.fr/

① **Effectue** ces additions.

		7	5	2
	+	1	4	9

		5	3	4
	+	2	6	8

		2	4	7
	+	4	5	6

		8	4	5
	+		7	9
	+			3

		6	5	2
	+	1	9	3
	+		4	2

② **Pose** et **effectue** ces additions.

405 + 488

	+			

391 + 4 + 286

	+			
	+			

178 + 59

	+			

483 + 67 + 38

	+			
	+			

671 + 95

	+			

③ **Résous ce problème.**

Maël, sa sœur Rose et leurs parents ont passé 15 jours en Chine. De ce voyage, Maël a rapporté 146 clichés, Rose 86 et leurs parents 429. **Combien de photos ont été prises en tout ?**

Calcul/L'addition posée (Nombres à 3 chiffres)

Calcul

CE1

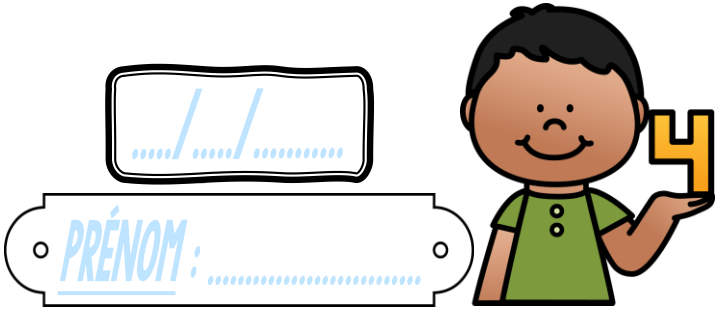

https://laclassebleue.fr/

① **Effectue** ces additions.

		7	5	2
	+	1	4	9

		5	3	4
	+	2	6	8

		2	4	7
	+	4	5	6

		8	4	5
	+		7	9
	+			3

		6	5	2
	+	1	9	3
	+		4	2

② **Pose** et **effectue** ces additions.

405 + 488

391 + 4 + 286

178 + 59

483 + 67 + 38

671 + 95

③ **Résous ce problème.**

Maël, sa sœur Rose et leurs parents ont passé 15 jours en Chine. De ce voyage, Maël a rapporté 146 clichés, Rose 86 et leurs parents 429. **Combien de photos ont été prises en tout ?**

Calcul/L'addition posée (Nombres à 3 chiffres)

Calcul

CE1



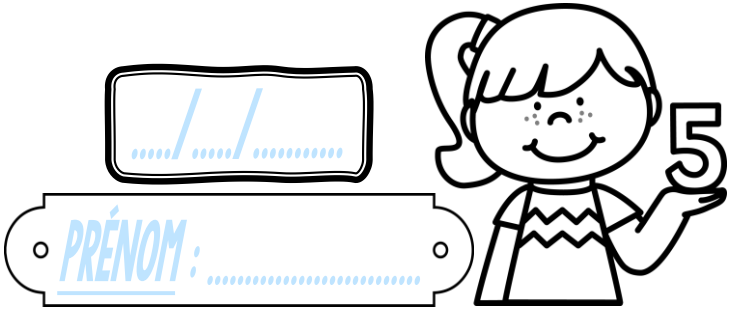

..../..../.....

PRÉNOM : .....

https://laclassebleue.fr/

① **Effectue** ces additions.

		6	8	5
	+	2	9	3

		4	0	1
	+	5	7	6

		3	5	9
	+		8	6

		7	4	7
	+	1	7	8
	+		6	9

		5	4	3
	+	2	2	4
	+	1	6	7

② **Pose** et **effectue** ces additions.

239 + 427

	+			

562 + 385

	+			

471 + 85 + 9

	+			
	+			

649 + 84 + 32

	+			
	+			

351 + 439

	+			

③ **Résous ce problème.**

Le 1er étage de la tour Eiffel compte 347 marches. Le 2ème étage comptabilise pour sa part 327 marches.

Combien de marches faut-il grimper **pour arriver en haut du 2ème étage** ?

Calcul/L'addition posée (Nombres à 3 chiffres)

Calcul

CE1



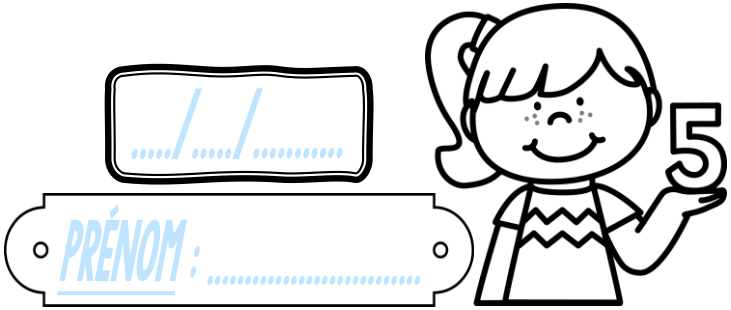

..../..../.....

PRÉNOM : .....

https://laclassebleue.fr/

① **Effectue** ces additions.

		6	8	5
	+	2	9	3

		4	0	1
	+	5	7	6

		3	5	9
	+		8	6

		7	4	7
	+	1	7	8
	+		6	9

		5	4	3
	+	2	2	4
	+	1	6	7

② **Pose** et **effectue** ces additions.

239 + 427

562 + 385

471 + 85 + 9

649 + 84 + 32

351 + 439

③ **Résous ce problème.**

Le 1er étage de la tour Eiffel compte 347 marches. Le 2ème étage comptabilise pour sa part 327 marches.

Combien de marches faut-il grimper **pour arriver en haut du 2ème étage** ?

Calcul/L'addition posée (Nombres à 3 chiffres)

Calcul

CE1



..../..../.....

PRÉNOM : .....

https://laclassebleue.fr/

① **Effectue** ces additions.

		6	8	5
	+	2	9	3

		4	0	1
	+	5	7	6

		3	5	9
	+		8	6

		7	4	7
	+	1	7	8
	+		6	9

		5	4	3
	+	2	2	4
	+	1	6	7

② **Pose** et **effectue** ces additions.

239 + 427

	+			

562 + 385

	+			

471 + 85 + 9

	+			
	+			

649 + 84 + 32

	+			
	+			

351 + 439

	+			

③ **Résous ce problème.**

Le 1er étage de la tour Eiffel compte 347 marches. Le 2ème étage comptabilise pour sa part 327 marches.

Combien de marches faut-il grimper **pour arriver en haut du 2ème étage** ?

Calcul/L'addition posée (Nombres à 3 chiffres)

Calcul

CE1

..../..../.....

PRÉNOM : .....

https://laclassebleue.fr/

① **Effectue** ces additions.

		6	8	5
	+	2	9	3

		4	0	1
	+	5	7	6

		3	5	9
	+		8	6

		7	4	7
	+	1	7	8
	+		6	9

		5	4	3
	+	2	2	4
	+	1	6	7

② **Pose** et **effectue** ces additions.

239 + 427

562 + 385

471 + 85 + 9

649 + 84 + 32

351 + 439

③ **Résous ce problème.**

Le 1er étage de la tour Eiffel compte 347 marches. Le 2ème étage comptabilise pour sa part 327 marches.

Combien de marches faut-il grimper **pour arriver en haut du 2ème étage** ?

Calcul/L'addition posée (Nombres à 3 chiffres)