Ces couples de droites sont-ils perpendiculaires ?



Oui Non

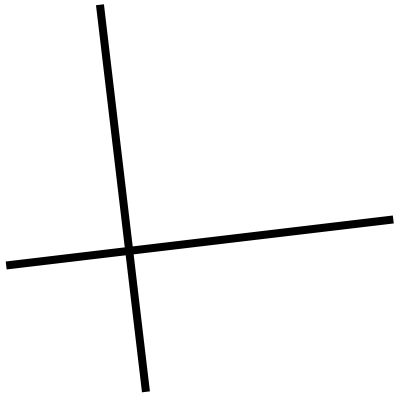

Oui Non

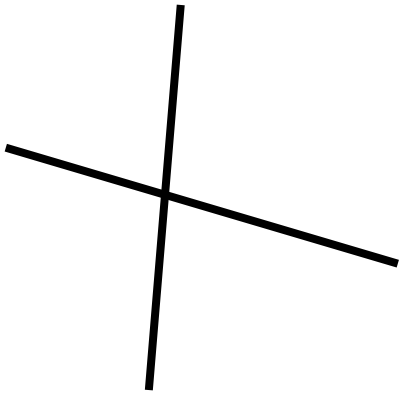

Oui Non

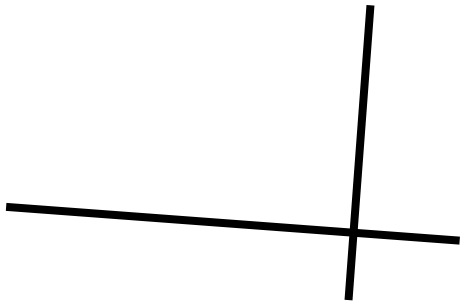

Oui Non

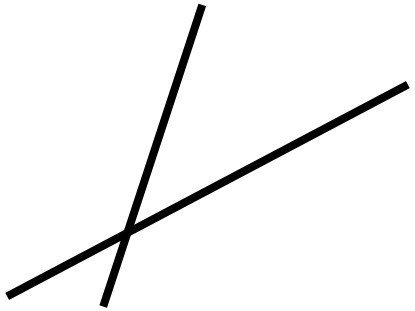

Oui Non

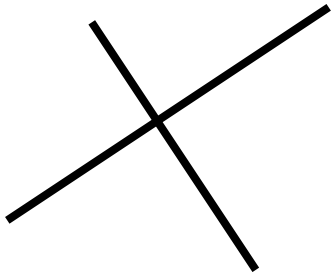

Oui Non

https://laclassebleue.fr/

Droites Perpendiculaires

- Deux droites sont **perpendiculaires** si elles se coupent en formant **un angle droit**.
- Pour **vérifier** si deux droites sont perpendiculaires, j'ai besoin de **mon équerre** !

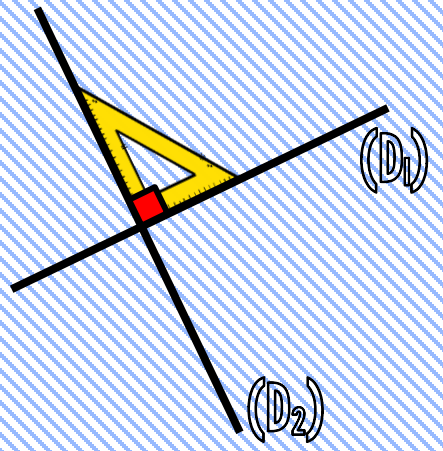

Ces couples de droites sont-ils perpendiculaires ?

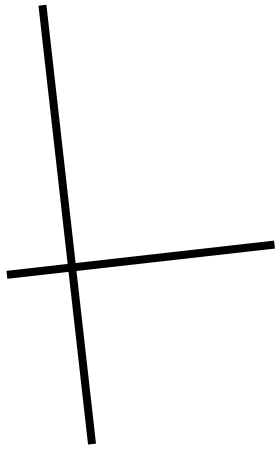

Oui Non

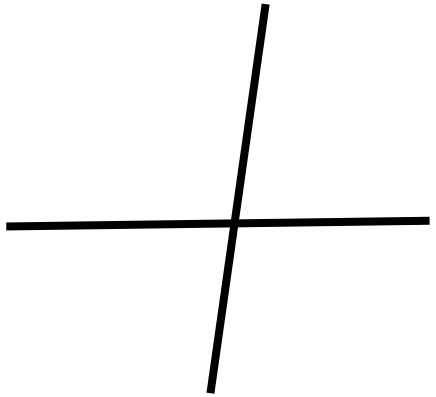

Oui Non

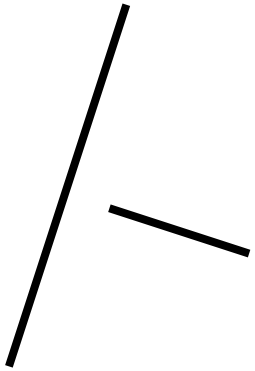

Oui Non

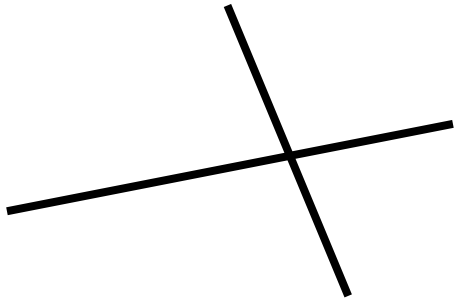

Oui Non

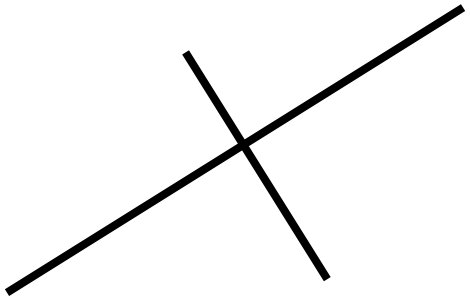

Oui Non

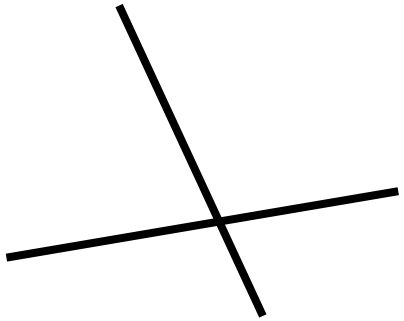

Oui Non

https://laclassebleue.fr/

Droites Perpendiculaires

- Deux droites sont **perpendiculaires** si elles se coupent en formant **un angle droit**.
- Pour **vérifier** si deux droites sont perpendiculaires, j'ai besoin de **mon équerre** !

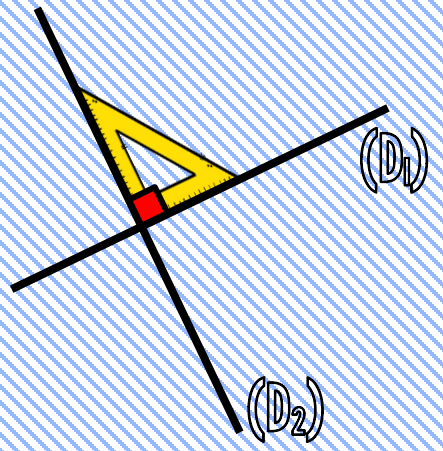

Ces couples de droites sont-ils perpendiculaires ?



Oui Non



Oui Non

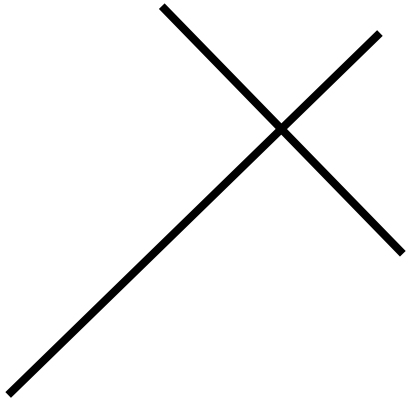

Oui Non

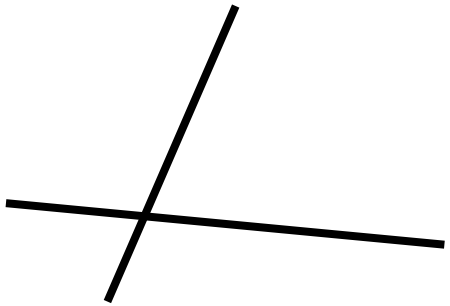

Oui Non

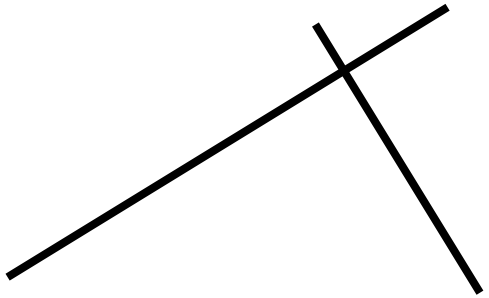

Oui Non

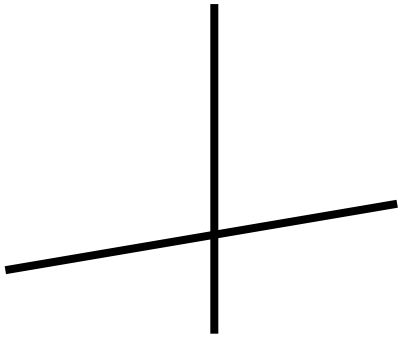

Oui Non

https://laclassebleue.fr/

Droites Perpendiculaires

- Deux droites sont **perpendiculaires** si elles se coupent en formant **un angle droit**.
- Pour **vérifier** si deux droites sont perpendiculaires, j'ai besoin de **mon équerre** !

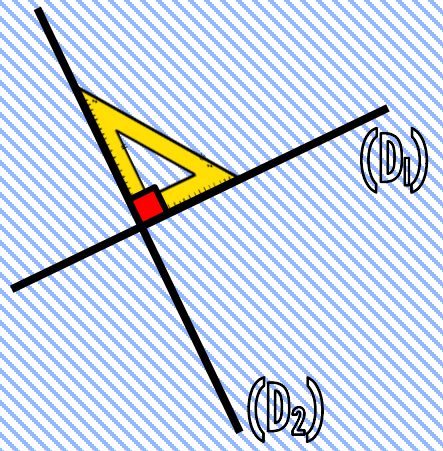

Ces couples de droites sont-ils perpendiculaires ?

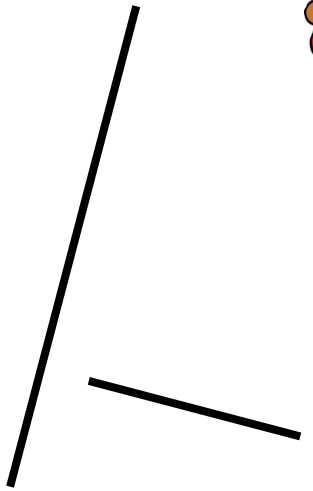

Oui Non

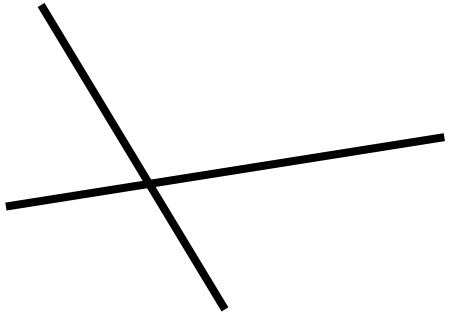

Oui Non



Oui Non

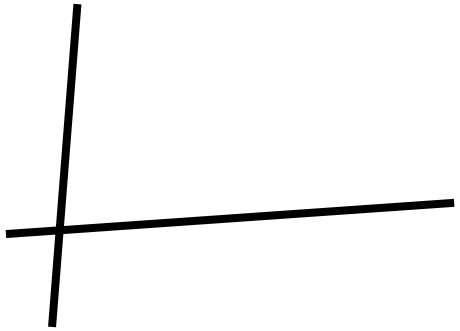

Oui Non

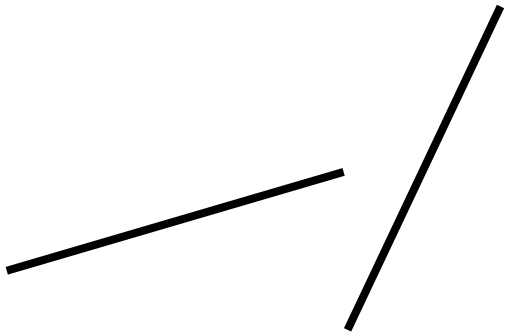

Oui Non

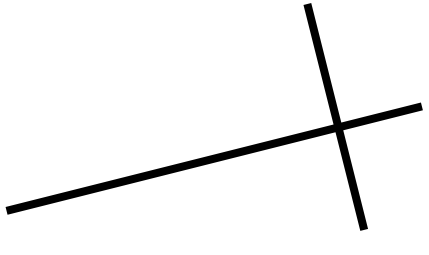

Oui Non

https://laclassebleue.fr/

Droites Perpendiculaires

- Deux droites sont **perpendiculaires** si elles se coupent en formant **un angle droit**.
- Pour **vérifier** si deux droites sont perpendiculaires, j'ai besoin de **mon équerre** !

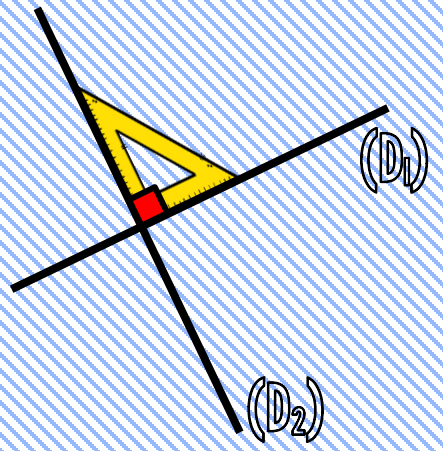

Repasse
de la même couleur
les droites perpendiculaires entre elles.



https://laclassebleue.fr/

DROITES PERPENDICULAIRES

- Deux droites sont **perpendiculaires** si elles se coupent en formant **un angle droit**.
- Pour **vérifier** si deux droites sont perpendiculaires, j'ai besoin de **mon équerre** !

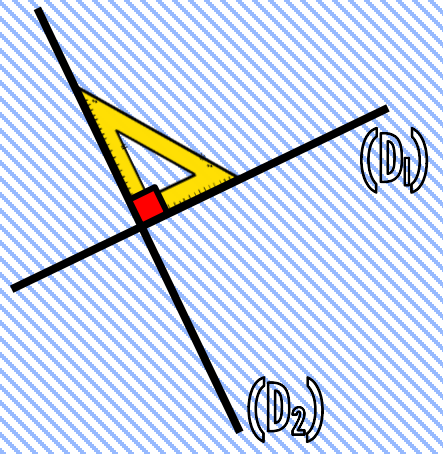

Repasse
de la même couleur
les droites perpendiculaires entre elles.



https://laclassebleue.fr/

DROITES PERPENDICULAIRES

- Deux droites sont **perpendiculaires** si elles se coupent en formant **un angle droit**.
- Pour **vérifier** si deux droites sont perpendiculaires, j'ai besoin de **mon équerre** !

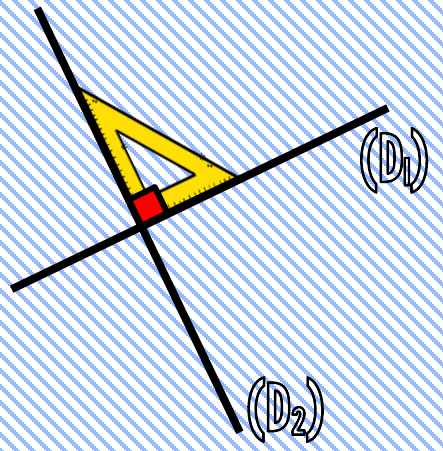



https://laclassebleue.fr/

Droites Perpendiculaires

- Deux droites sont **perpendiculaires** si elles se coupent en formant **un angle droit**.
- Pour **vérifier** si deux droites sont perpendiculaires, j'ai besoin de **mon équerre** !



Repasse
de la même couleur
les droites perpendiculaires entre elles.



https://laclassebleue.fr/

DROITES PERPENDICULAIRES

- Deux droites sont **perpendiculaires** si elles se coupent en formant **un angle droit**.
- Pour **vérifier** si deux droites sont perpendiculaires, j'ai besoin de **mon équerre** !

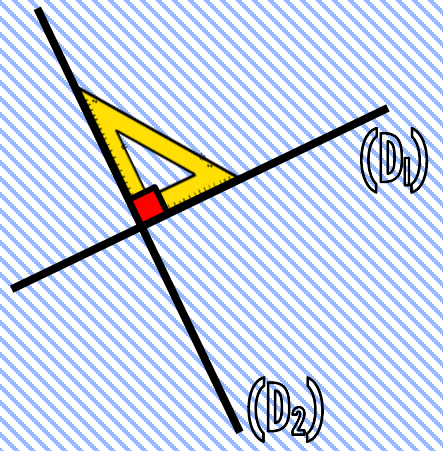

Trace

3 droites perpendiculaires à la droite (d1).



https://laclassebleue.fr/

Droites Perpendiculaires

- Deux droites sont **perpendiculaires** si elles se coupent en formant **un angle droit**.
- Pour **tracer** deux droites perpendiculaires, j'ai besoin de **ma règle** et de **mon équerre** !



Trace

3 droites perpendiculaires à la droite (d1).

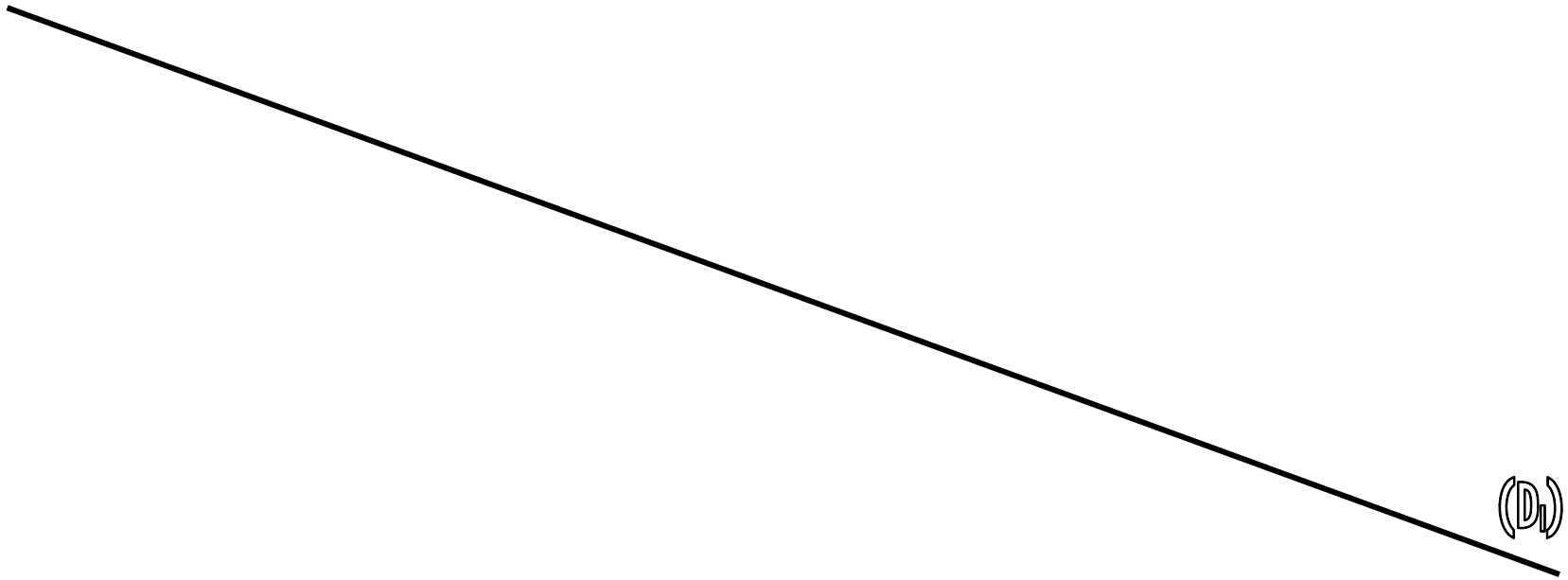

https://laclassebleue.fr/

DROITES PERPENDICULAIRES

- Deux droites sont **perpendiculaires** si elles se coupent en formant **un angle droit**.
- Pour **tracer** deux droites perpendiculaires, j'ai besoin de **ma règle** et de **mon équerre** !



Trace

3 droites perpendiculaires à la droite (d1).



https://laclassebleue.fr/

DROITES PERPENDICULAIRES

- Deux droites sont **perpendiculaires** si elles se coupent en formant **un angle droit**.
- Pour **tracer** deux droites perpendiculaires, j'ai besoin de **ma règle** et de **mon équerre** !

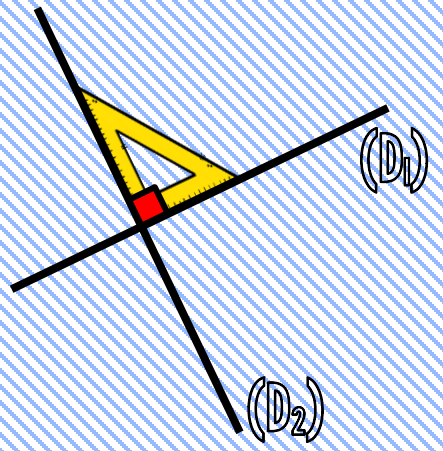

Trace

3 droites perpendiculaires

à la droite (d1) passant par les points A, B et C.

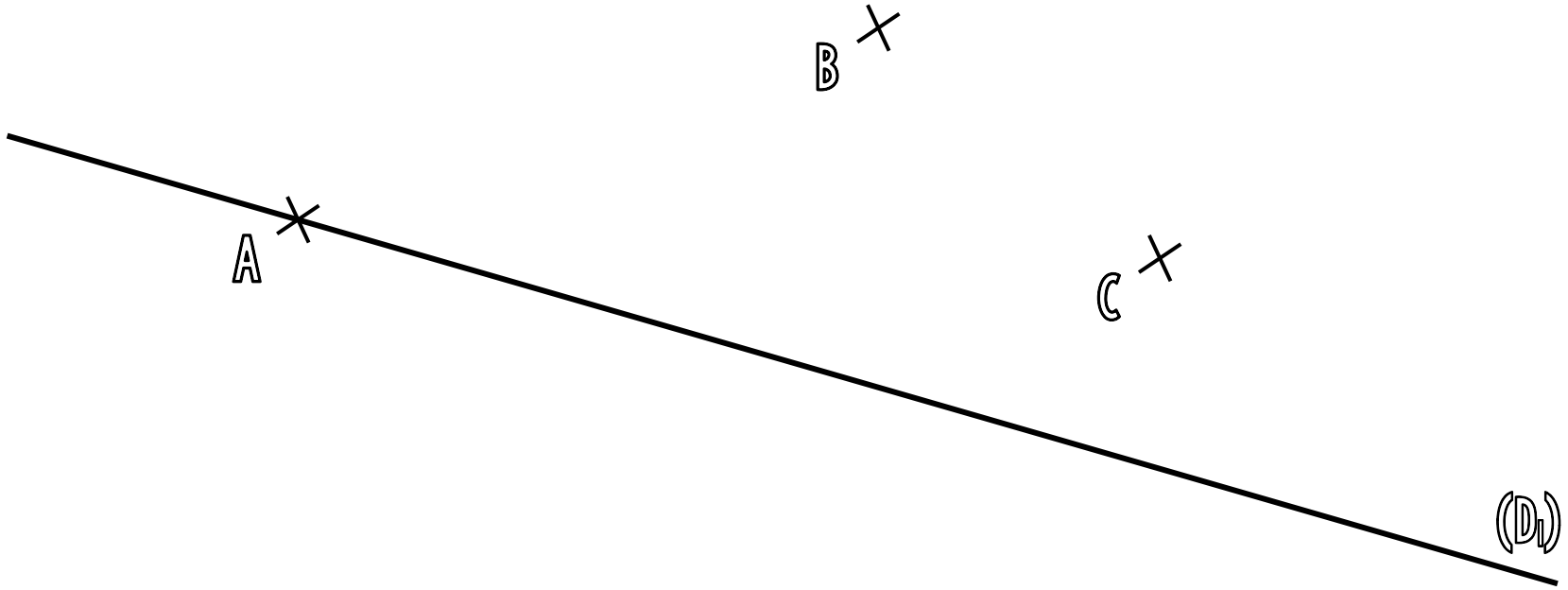

https://laclassebleue.fr/

DROITES PERPENDICULAIRES

- Deux droites sont **perpendiculaires** si elles se coupent en formant **un angle droit**.
- Pour **tracer** deux droites perpendiculaires, j'ai besoin de **ma règle** et de **mon équerre** !

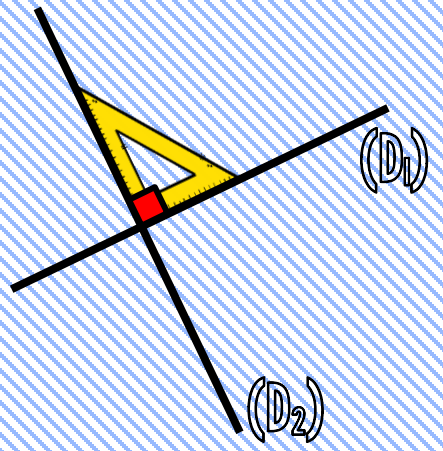

Trace

3 droites perpendiculaires

à la droite (d1) passant par les points A, B et C.

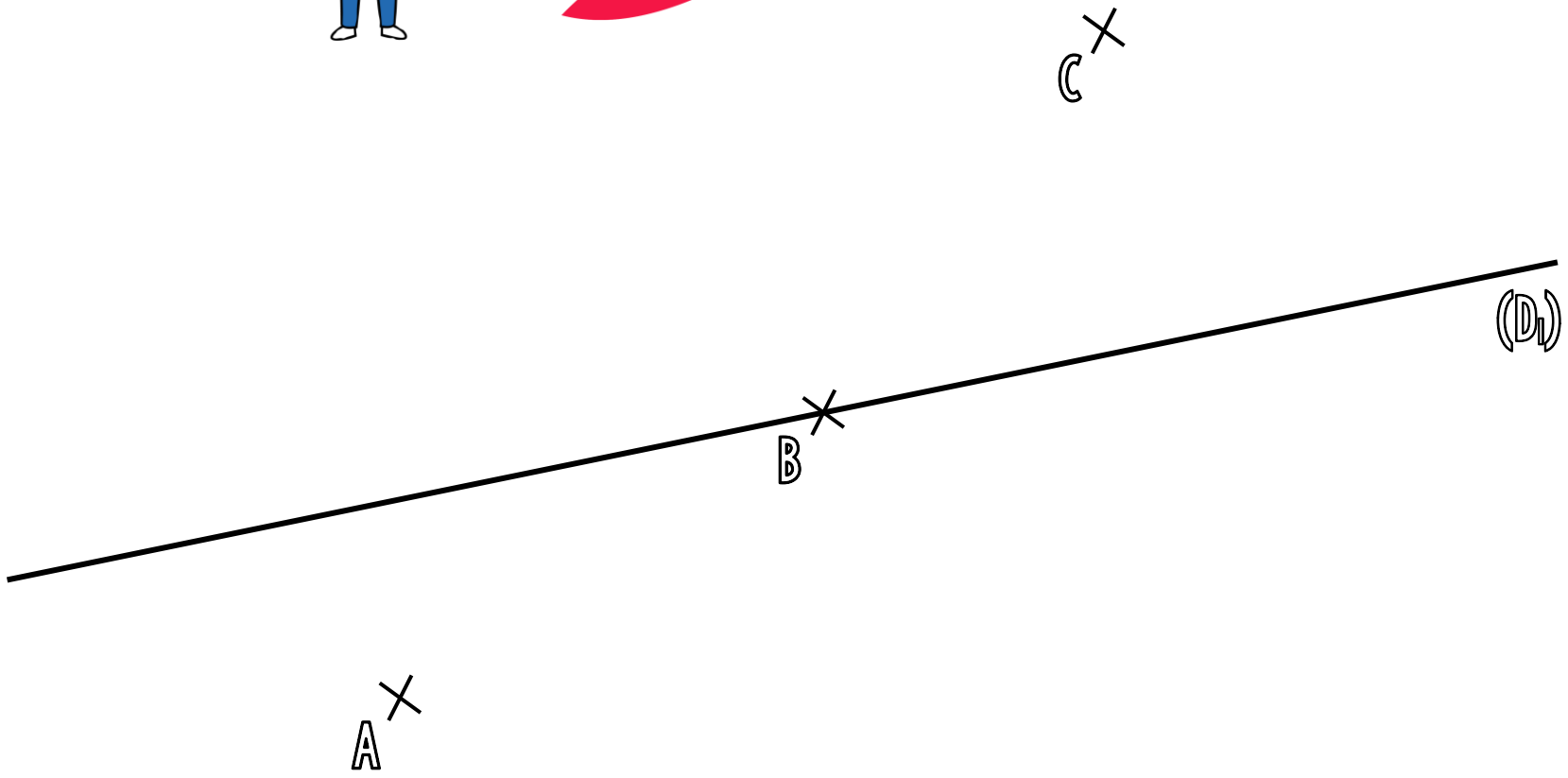

https://laclassebleue.fr/

DROITES PERPENDICULAIRES

- Deux droites sont **perpendiculaires** si elles se coupent en formant **un angle droit**.
- Pour **tracer** deux droites perpendiculaires, j'ai besoin de **ma règle** et de **mon équerre** !

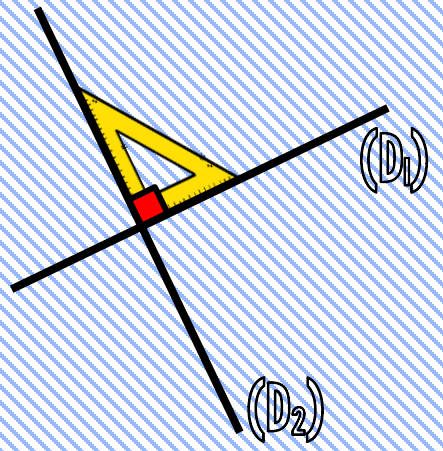

Trace

3 droites perpendiculaires

à la droite (d1) passant par les points A, B et C.

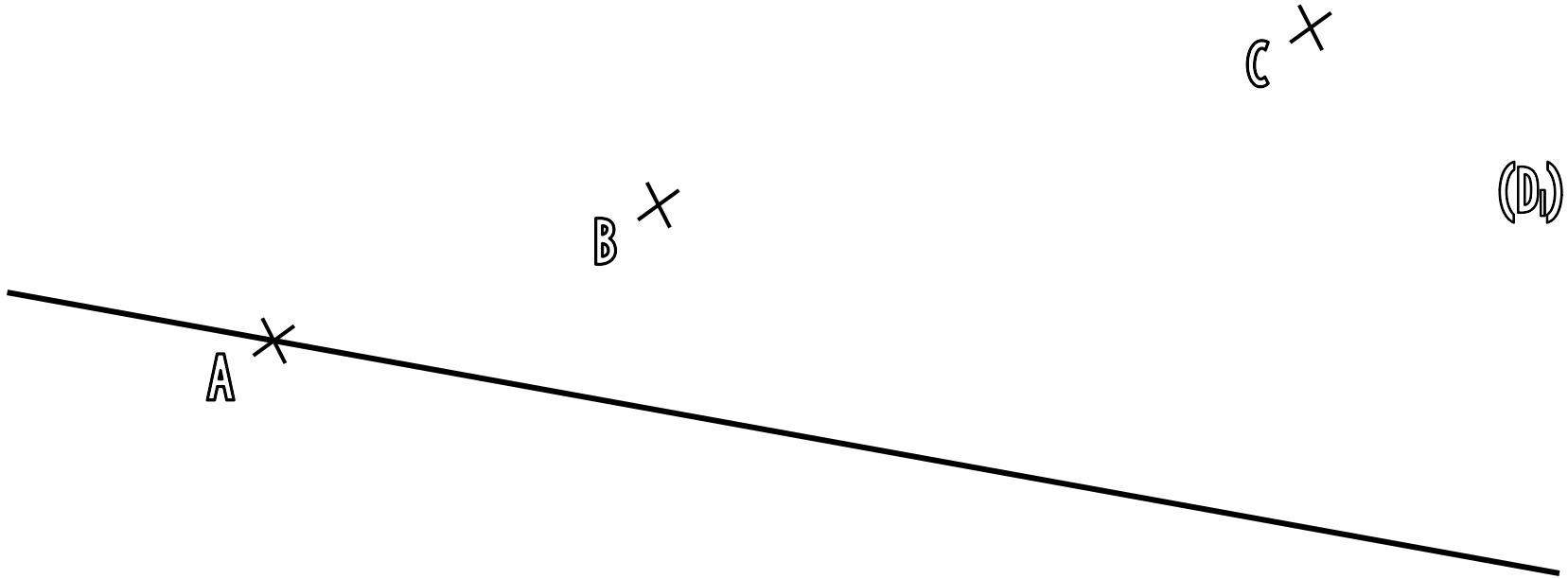

https://laclassebleue.fr/

DROITES PERPENDICULAIRES

- Deux droites sont **perpendiculaires** si elles se coupent en formant **un angle droit**.
- Pour **tracer** deux droites perpendiculaires, j'ai besoin de **ma règle** et de **mon équerre** !

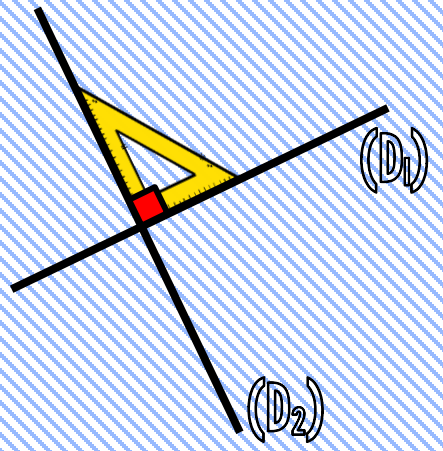

Trace

3 droites perpendiculaires

à la droite (d1) passant par les points A, B et C.

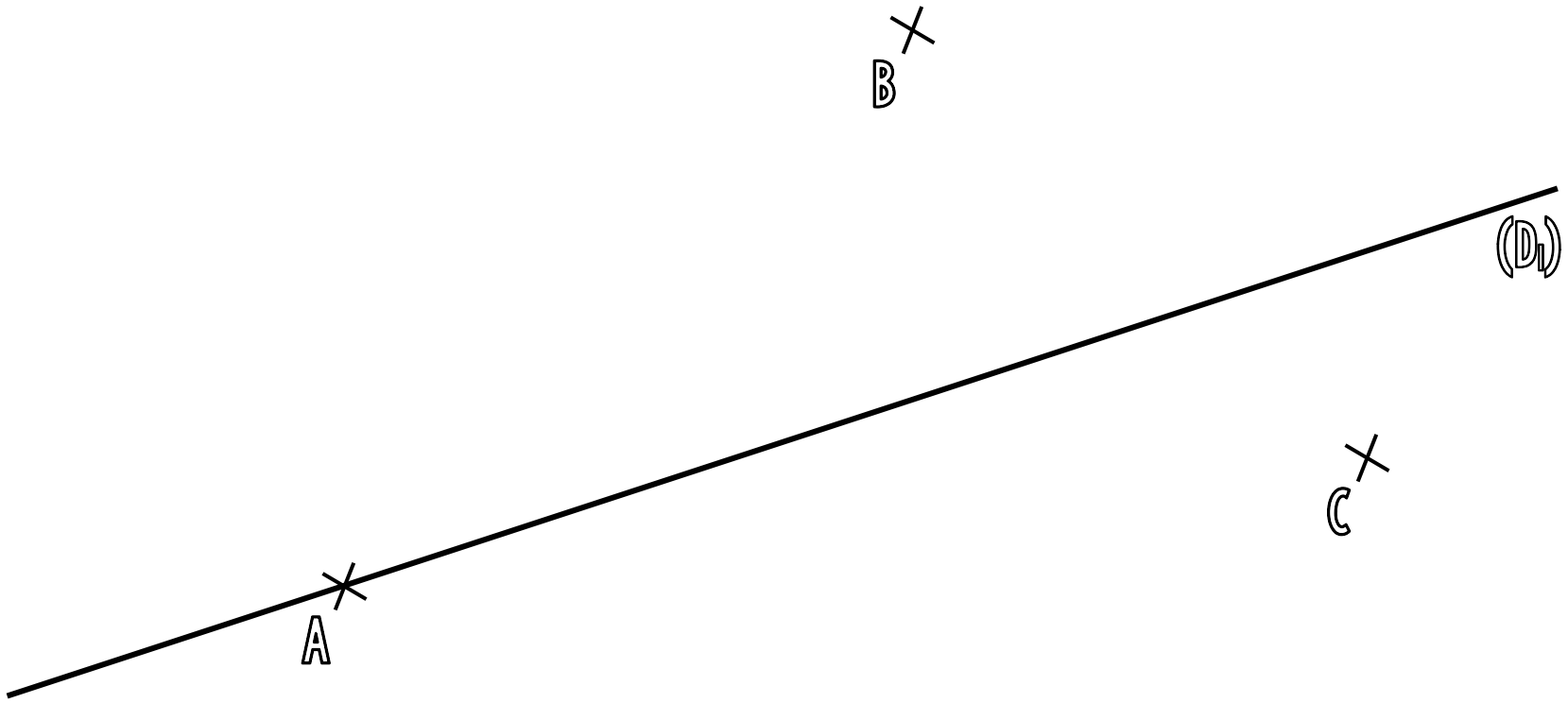

https://laclassebleue.fr/

Droites Perpendiculaires
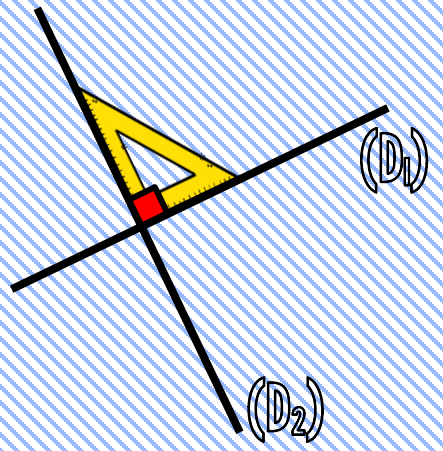
- Deux droites sont **perpendiculaires** si elles se coupent en formant **un angle droit**.
- Pour **tracer** deux droites perpendiculaires, j'ai besoin de **ma règle** et de **mon équerre** !