Calcul

CE2

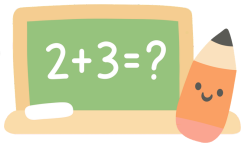

laclassebleue

..... / ..... / .....

N° 1

1) Effectue ces additions.



	3 1 5	4 5 2	2 3 5
+	2 6 4	+ 3 7 8	+ 1 4 7

7 4 8	5 0 4	8 4 0
+ 5 6	+ 2 8 9	+ 3 5 7

2) Pose et effectue ces additions.

524 + 263	292 + 347	814 + 108	157 + 84	627 + 256	417 + 392

3) Résous ce problème dans ton cahier.

Lors du Tour de France 2026, les cyclistes ont effectué une étape de 179 km le 16 juillet et une étape de 206 km le 17 juillet. **Quelle distance totale** ont-ils parcourue **en deux jours** ?

Calcul

CE2

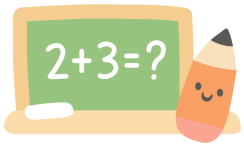



laclassebleue

..... / ..... / .....

N° 1

1) Effectue ces additions.

3 1 5 + 2 6 4	4 5 2 + 3 7 8	2 3 5 + 1 4 7	7 4 8 + 5 6
5 0 4 + 2 8 9	8 4 0 + 3 5 7		

2) Pose et effectue ces additions.

524 + 263	292 + 347	814 + 108	157 + 84	627 + 256	417 + 392
+	+	+	+	+	+

3) Résous ce problème dans ton cahier.

Lors du Tour de France 2026, les cyclistes ont effectué une étape de 179 km le 16 juillet et une étape de 206 km le 17 juillet. **Quelle distance totale** ont-ils parcourue **en deux jours** ?

Calcul

CE2

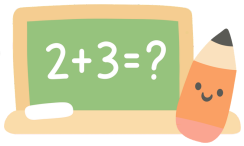



laclassebleue

..... / ..... / .....

N° 2

1) Effectue ces additions.

	5 9 4		
	+ 1 7 2		
	3 0 7		
	+ 2 4 6		
	7 4 8		
	+ 1 6 8		
	4 1 4		
	+ 3 9 3		
	6 7 5		
	+ 2 4 9		
	9 4 5		
	+ 4 0 8		

2) Pose et effectue ces additions.

637 + 156	24 + 849	351 + 246	523 + 428	159 + 744	248 + 448

3) Résous ce problème dans ton cahier.

Un centre de loisirs achète un toboggan coutant 249 € et une balançoire au prix de 378 €.

Quel sera le montant total de la dépense ?

Calcul

CE2

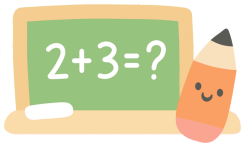



laclassebleue

..... / ..... / .....

N° 2

1) Effectue ces additions.

	5 9 4		
	+ 1 7 2		
	3 0 7		
	+ 2 4 6		
	7 4 8		
	+ 1 6 8		
	4 1 4		
	+ 3 9 3		
	6 7 5		
	+ 2 4 9		
	9 4 5		
	+ 4 0 8		

2) Pose et effectue ces additions.

637 + 156	24 + 849	351 + 246	523 + 428	159 + 744	248 + 448
+	+	+	+	+	+

3) Résous ce problème dans ton cahier.

Un centre de loisirs achète un toboggan coutant 249 € et une balançoire au prix de 378 €.

Quel sera le montant total de la dépense ?

Calcul

CE2

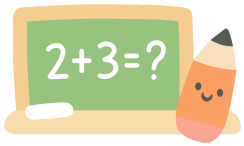



laclassebleue

..... / ..... / .....

N° 3

1) Effectue ces additions.

	4 8 5		
+	3 2 7		

	6 3 3		
+	2 1 8		

	2 0 2		
+	5 3 9		

	3 9 6		
+	4 2 7		

	8 1 8		
+	1 0 4		

	7 6 9		
+	3 4 5		

2) Pose et effectue ces additions.

548 + 73	707 + 26	39 + 618	244 + 716	625 + 337	406 + 189

3) Résous ce problème dans ton cahier.

Une salle de cinéma compte 376 places assises. Après son agrandissement, il y aura 125 places de plus. **Combien de sièges** la salle aura-t-elle ?

Calcul

CE2

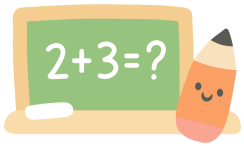



laclassebleue

..... / ..... / .....

N° 3

1) Effectue ces additions.

		4	8	5			6	3	3			2	0	2
+	3	2	7		+	2	1	8		+	5	3	9	

		3	9	6			8	1	8			7	6	9
+	4	2	7		+	1	0	4		+	3	4	5	

2) Pose et effectue ces additions.

548 + 73	707 + 26	39 + 618	244 + 716	625 + 337	406 + 189
+	+	+	+	+	+

3) Résous ce problème dans ton cahier.

Une salle de cinéma compte 376 places assises. Après son agrandissement, il y aura 125 places de plus. **Combien de sièges** la salle aura-t-elle ?

Calcul

CE2

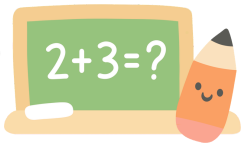



laclassebleue

..... / ..... / .....

N° 4

1) Effectue ces additions.

	2 7 3		
+	1 8 4		

	5 4 8		
+	9 3		

	6 1 7		
+	3 5 9		

	8 2 8		
+	1 3 6		

	3 4 0		
+	4 9 5		

	6 8 2		
+	5 7 3		

2) Pose et effectue ces additions.

427 + 255	630 + 417	82 + 443	276 + 681	945 + 517	704 + 896

3) Résous ce problème dans ton cahier.

Depuis que le vendeur lui a appliqué une réduction de 49 €, la console de jeux que voulait Thomas coute 295 €. **Combien coutait la console** avant la réduction ?

Calcul

CE2

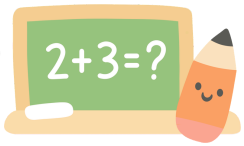



laclassebleue

..... / ..... / .....

N° 4

1) Effectue ces additions.

	2 7 3		
+	1 8 4		

	5 4 8		
+	9 3		

	6 1 7		
+	3 5 9		

	8 2 8		
+	1 3 6		

	3 4 0		
+	4 9 5		

	6 8 2		
+	5 7 3		

2) Pose et effectue ces additions.

427 + 255	630 + 417	82 + 443	276 + 681	945 + 517	704 + 896
+	+	+	+	+	+

3) Résous ce problème dans ton cahier.

Depuis que le vendeur lui a appliqué une réduction de 49 €, la console de jeux que voulait Thomas coute 295 €. **Combien coutait la console** avant la réduction ?

Calcul CE2



laclassebleue

..... / ..... / .....

N° 5

1) Effectue ces additions.

	3 6 4	8 2 5	4 1 6
	+ 4 7 1	+ 6 9 7	+ 3 7 8

9 0 5	4 9 2	7 0 5
+ 2 9 7	+ 3 4 0	+ 4 4 8
	+ 3 8 9	+ 2 7 3

2) Pose et effectue ces additions.

215 + 87	836 + 354	507 + 268

155 + 347	56 + 714 + 8	342 + 95 + 7

3) Résous ce problème dans ton cahier.

Dans une bibliothèque, on compte 286 romans, 95 livres de science-fiction et 349 bandes dessinées.
Combien y a-t-il de livres en tout dans la bibliothèque ?

Calcul

CE2

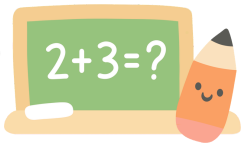



laclassebleue

..... / ..... / .....

N° 5

1) Effectue ces additions.

	3 6 4		
	+ 4 7 1		
	8 2 5		
	+ 6 9 7		
	4 1 6		
	+ 3 7 8		
	9 0 5		
	+ 2 9 7		
	4 9 2		
	+ 3 4 0		
	+ 3 8 9		
	7 0 5		
	+ 4 4 8		
	+ 2 7 3		

2) Pose et effectue ces additions.

215 + 87	836 + 354	507 + 268	155 + 347	56 + 714 + 8	342 + 95 + 7
+	+	+	+	+	+
				+	+

3) Résous ce problème dans ton cahier.

Dans une bibliothèque, on compte 286 romans, 95 livres de science-fiction et 349 bandes dessinées.
Combien y a-t-il de livres en tout dans la bibliothèque ?

Calcul

CE2

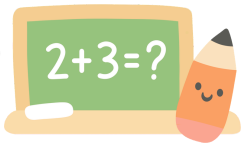



laclassebleue

..... / ..... / .....

N° 6

1) Effectue ces additions.

	7 4 6		
+	5 1 9		

	6 9 3		
+	3 2 5		

	4 7 0		
+	2 8 7		

	2 5 4		
+	1 9 3		

	5 2 7		
+	9 4		
+	6		

	8 2 4		
+	6 5 6		
+	3 6 2		

2) Pose et effectue ces additions.

558 + 237	462 + 85 + 9	811 + 596	937 + 76	4 + 28 + 647	2 356 + 839

3) Résous ce problème dans ton cahier.

Élodie a récolté 356 g de fraises, 549 g de myrtilles et 687 g de framboises.

Quelle masse de fruits Élodie **a-t-elle récoltée** ?

Calcul

CE2

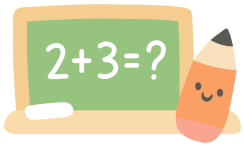



laclassebleue

..... / ..... / .....

N° 6

1) Effectue ces additions.

	7 4 6		
+	5 1 9		
	6 9 3		
+	3 2 5		
	4 7 0		
+	2 8 7		
	2 5 4		
+	1 9 3		
	5 2 7		
+	9 4		
+	6		
	8 2 4		
+	6 5 6		
+	3 6 2		

2) Pose et effectue ces additions.

558 + 237	462 + 85 + 9	811 + 596	937 + 76	4 + 28 + 647	2 356 + 839
+	+	+	+	+	+
	+			+	

3) Résous ce problème dans ton cahier.

Élodie a récolté 356 g de fraises, 549 g de myrtilles et 687 g de framboises.

Quelle masse de fruits Élodie **a-t-elle récoltée** ?

Calcul

CE2



laclassebleue

..... / ..... / .....

N° 7

1) Effectue ces additions.

	6	5	0
+	4	6	8

	3	1	7
+	2	9	3

	8	3	6
+	7	3	5

	5	8	1
+	4	6	2

	7	4	3
+	2	8	2
+			7

	4	8	0	2
+	3	9	5	3
+		2	7	8

2) Pose et effectue ces additions.

45 + 967	254 + 218	447 + 6 + 75	642 + 355	175 + 528	9 493 + 775

3) Résous ce problème dans ton cahier.

En France, le Sénat est composé de 348 élus. L'Assemblée Nationale compte 234 élus de plus que le Sénat.
Combien y a-t-il d'élus à l'Assemblée Nationale ?

Calcul

CE2



laclassebleue

..... / ..... / .....

N° 7

1) Effectue ces additions.

	6 5 0		
+	4 6 8		

	3 1 7		
+	2 9 3		

	8 3 6		
+	7 3 5		

	5 8 1		
+	4 6 2		

	7 4 3		
+	2 8 2		
+	7		

	4 8 0 2		
+	3 9 5 3		
+	2 7 8		

2) Pose et effectue ces additions.

45 + 967	254 + 218	447 + 6 + 75	642 + 355	175 + 528	9 493 + 775
+	+	+	+	+	+
		+			

3) Résous ce problème dans ton cahier.

En France, le Sénat est composé de 348 élus. L'Assemblée Nationale compte 234 élus de plus que le Sénat.

Combien y a-t-il d'élus à l'Assemblée Nationale ?

Calcul CE2

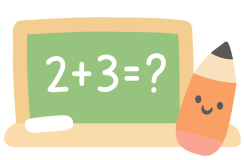



laclassebleue

..... / ..... / .....

N° 8

1) Effectue ces additions.

	9 6 4		
+	5 3 2		

	4 5 3		
+	2 7 8		

	6 7 0		
+	2 8 6		

	3 4 4		
+	7 6 3		

	5 5 6		
+	3 2		
+	4		

	8 4 7 2		
+	1 9 3 4		
+	7 5 9		

2) Pose et effectue ces additions.

420 + 93	571 + 309	34 + 657	253 + 76 + 8	329 + 282	4 018 + 67 + 8

3) Résous ce problème dans ton cahier.

Dans un parking, il y a 187 voitures garées au 1er niveau, 254 au 2nd niveau et 69 au 3ème niveau.
Combien y a-t-il de voitures stationnées dans le parking ?

Calcul

CE2

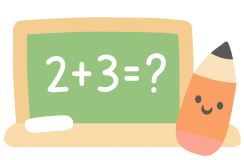



laclassebleue

..... / ..... / .....

N° 8

1) Effectue ces additions.

	9 6 4		
+	5 3 2		

	4 5 3		
+	2 7 8		

	6 7 0		
+	2 8 6		

	3 4 4		
+	7 6 3		

	5 5 6		
+	3 2		
+	4		

	8 4 7 2		
+	1 9 3 4		
+	7 5 9		

2) Pose et effectue ces additions.

420 + 93	571 + 309	34 + 657	253 + 76 + 8	329 + 282	4 018 + 67 + 8
+	+	+	+	+	+
			+		+

3) Résous ce problème dans ton cahier.

Dans un parking, il y a 187 voitures garées au 1er niveau, 254 au 2nd niveau et 69 au 3ème niveau.
Combien y a-t-il de voitures stationnées dans le parking ?

Calcul

CE2

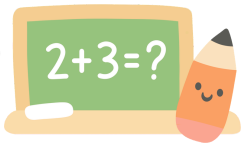



laclassebleue

..... / ..... / .....

N° 9

1) Effectue ces additions.

329 + 758	416 + 293	705 + 92	586 + 279
954 + 597 + 46	5218 + 4022 + 695		

2) Pose et effectue ces additions.

146 + 254	680 + 443	45 + 827 + 9	227 + 625	597 + 354 + 9	6 734 + 84 + 7

3) Résous ce problème dans ton cahier.

Le Moyen-Âge a débuté en 476 et a pris fin 1 016 ans plus tard quand Christophe Colomb a découvert l'Amérique. **En quelle année** le Moyen Âge **s'est-il terminé** ?

Calcul

CE2

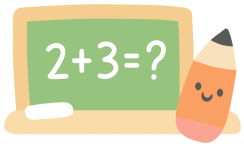



laclassebleue

..... / ..... / .....

N° 9

1) Effectue ces additions.

3 2 9 + 7 5 8	4 1 6 + 2 9 3	7 0 5 + 9 2	5 8 6 + 2 7 9
9 5 4 + 5 9 7 + 4 6	5 2 1 8 + 4 0 2 2 + 6 9 5		

2) Pose et effectue ces additions.

146 + 254	680 + 443	45 + 827 + 9	227 + 625	597 + 354 + 9	6 734 + 84 + 7
+	+	+ +	+	+ +	+ +

3) Résous ce problème dans ton cahier.

Le Moyen-Âge a débuté en 476 et a pris fin 1 016 ans plus tard quand Christophe Colomb a découvert l'Amérique. **En quelle année** le Moyen Âge **s'est-il terminé** ?